方程式のグラフ　1

年　　組　　番・氏名

◇次の方程式のグラフをかけ。

① $2x+y=7$	② $6x-2y=10$
③ $2x-3y=6$	④ $y=-5$

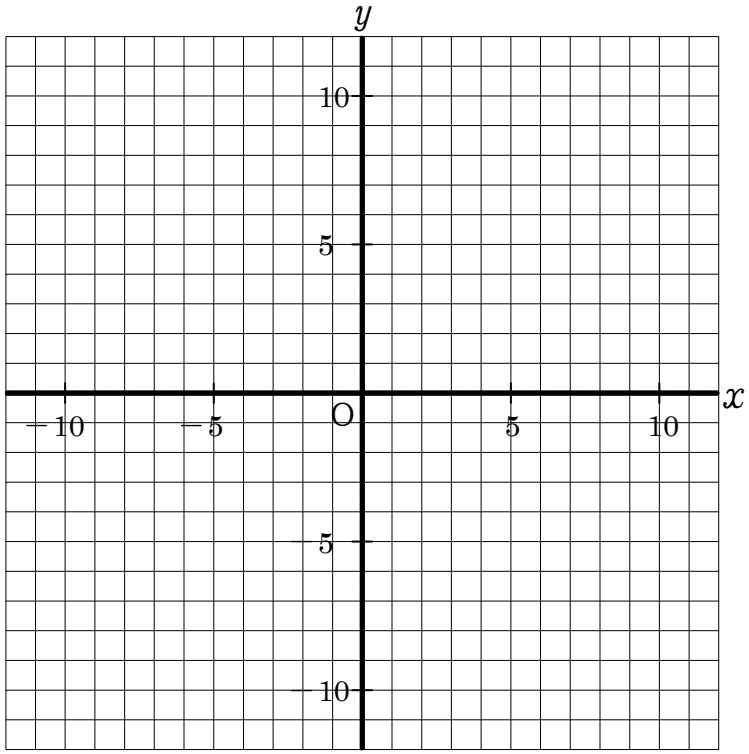

＜　年　月　日＞

方程式のグラフ　2

年　　組　　番・氏名

◇次の方程式のグラフをかけ。

① $x+y=6$	② $x-3y=6$
③ $2x-3y=6$	④ $x=-3$

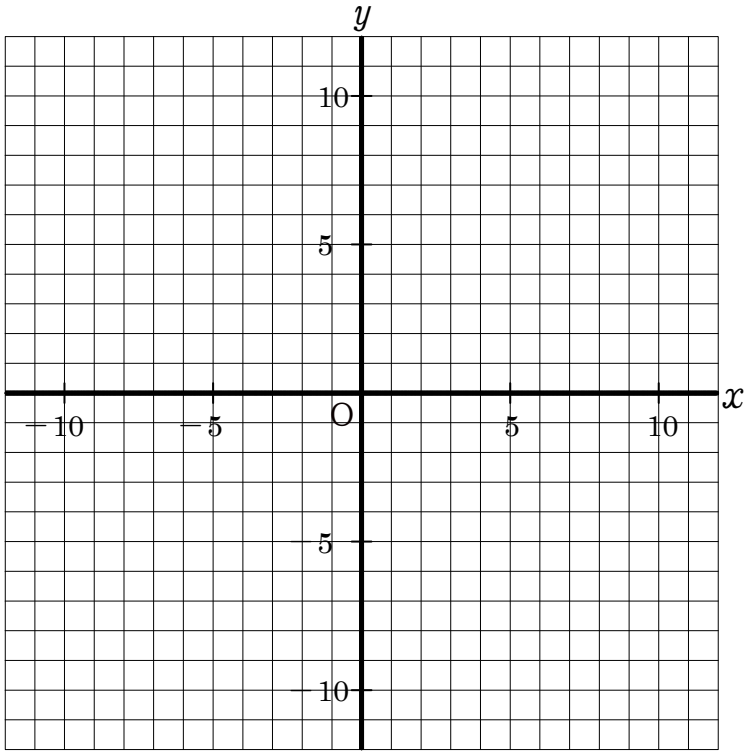

＜　年　月　日＞

方程式のグラフ　3

年　　組　　番・氏名

◇次の方程式のグラフをかけ。

① $2x-y=3$	② $2x+3y=15$
③ $3x+2y=-12$	④ $y=4$

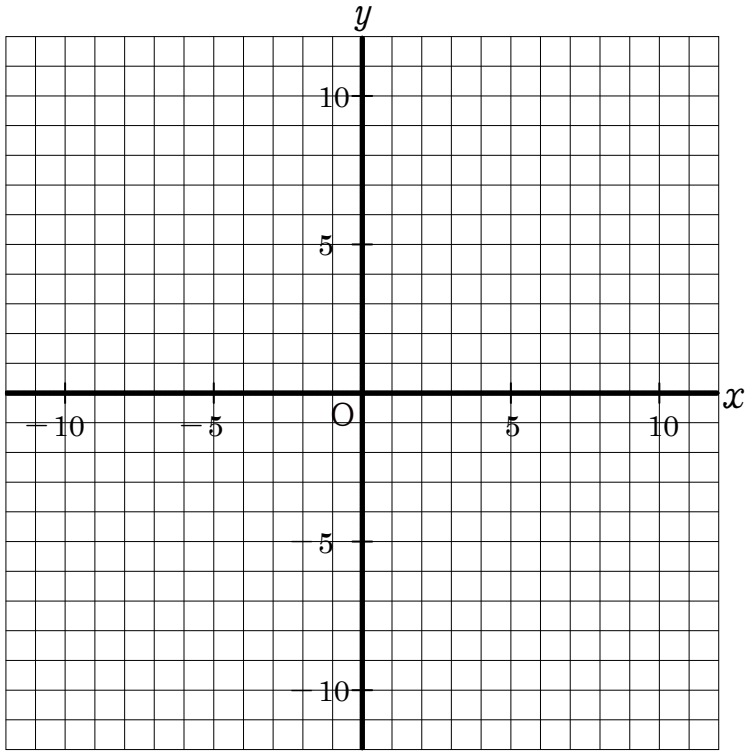

＜　年　月　日＞

方程式のグラフ　4

年　　組　　番・氏名

◇次の方程式のグラフをかけ。

① $3x+y=5$	② $x-2y=8$
③ $3x-5y=-15$	④ $x=7$

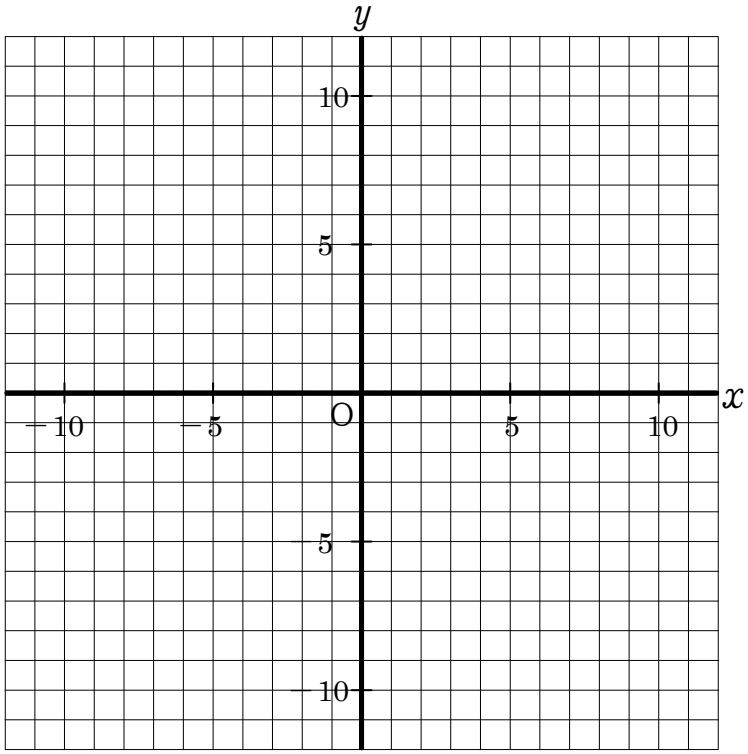

＜　年　月　日＞

方程式のグラフ　5

年　　組　　番・氏名

◇次の方程式のグラフをかけ。

① $3x+y=7$	② $3x-2y=8$
③ $2x-5y=10$	④ $y=-6$

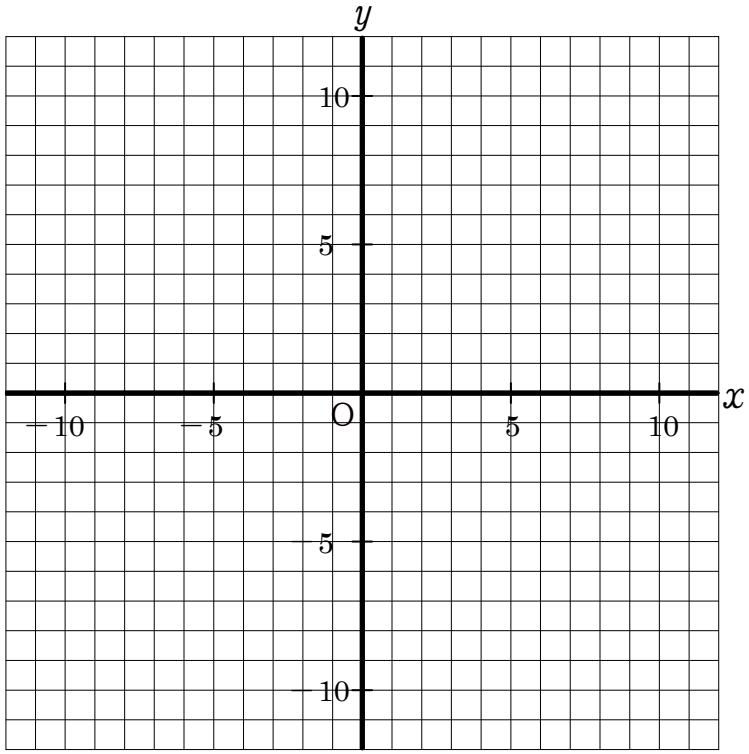

＜　年　月　日＞

方程式のグラフ　6

年　　組　　番・氏名

◇次の方程式のグラフをかけ。

① $2x+y=-5$	② $x-3y=12$
③ $3x+4y=12$	④ $x=3$

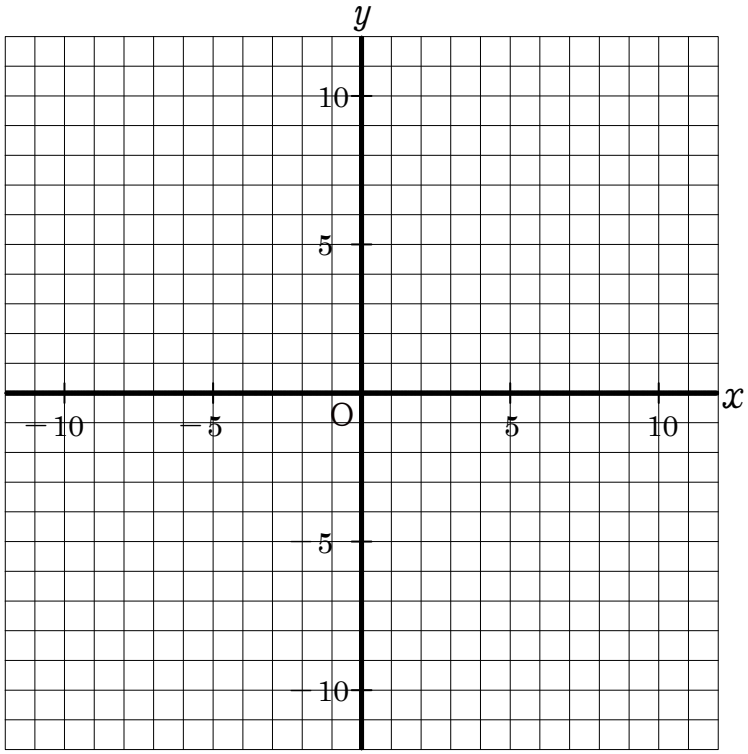

＜　年　月　日＞